RÁCSOS TARTÓ FELADAT

Az ábrán feltüntetett rácsos tartó hálózati rajza alapján tervezze meg a kijelölt csomópontot. A kapcsolatot hegesztéssel vagy csavarozással alakítsa ki. A rudak anya S235 legyen. A rudak keresztmetszete egyenlő szárú L szelvény. Határozza meg a befutó rudak méretét és méretezze a kapcsolatot. Ismert a terhelő erő.

A

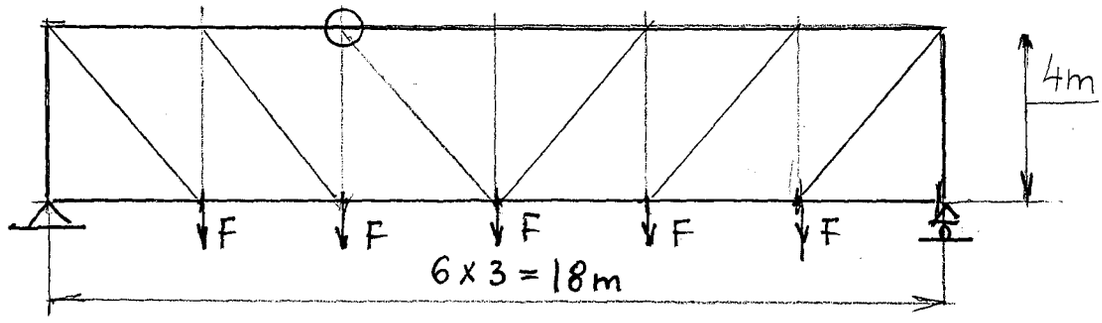

B

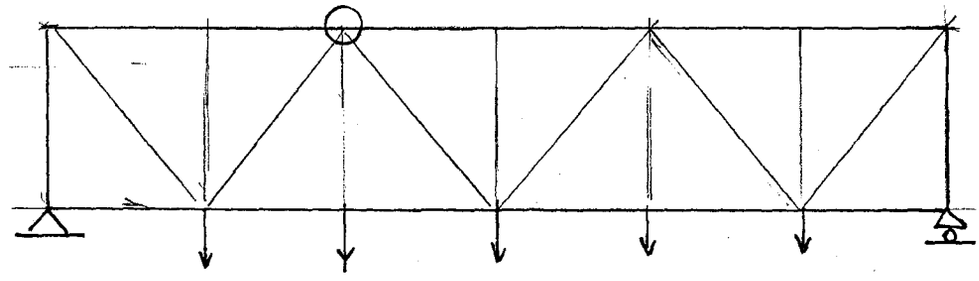

C

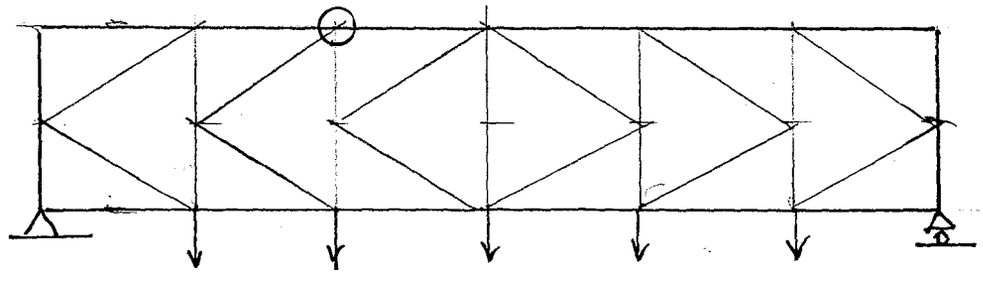

A	1	2	3	4	5	6	7	8	9	10	11	12	13	14	
B	15	16	17	18	19	20	21	22	23	24	25	26	27	28	
C	29	30	31	32	33	34	35	36	37	38	39	40			
F	30	32	34	36	38	40	42	44	46	48	50	52	54	56	kN
	G	H	Cs	H	Cs	H	Cs	H	Cs	H	Cs	H	Cs	H	